ЗАДАНИЯ
для выявления интеллектуально одаренных учащихся
по учебным предметам «Всемирная история», «История Беларуси»

ИСТОРИЯ ВСЕМИРНАЯ

Выберите правильный ответ.

1. Пелопоннесская война завершилась в:
а) 414г. до н. э.; б) 407г. до н. э.; в) 404 г. до н. э.; г) 401г. до н. э.

2. Византийский император Юстиниан I правил в:
а) 537 - 562 гг.; б) 527 - 565гг.; в) 525 - 567 гг.; г) 523 - 568 гг.

3. В 1356 г. состоялась:
а) битва при Креси; б) битва при Лас-Навас-де-Толоса;
в) битва при Пуатье; г) битва на Синих Водах.

4. Кого современники называли «ленивыми королями»?
а) Меровингов; б) Каролингов; в) Капетингов; г) Бурбонов.

5. Событиям Нидерландской буржуазной революции посвятил свою картину “Избиение младенцев” художник:
а) Альбрехт Дюрер; в) Иероним Босх;
б) Питер Брейгель Старший; г) Рафаэль Санти.

6. До конца XIX в. именно это европейское государство придерживалось политики «блестящей изоляции»:
а) Франция; в) Германия;
б) Россия; г)Великобритания.

7. Определите деятельность, которую осуществлял человек, изображенный на портрете:

1) по поручению Александра I написал 12томную “Историю государства Российского”;
2) открыл “ледяной материк” - Антарктиду и 29 островов в Атлантическом и Тихом океане;
3) первым провёл операцию под наркозом на поле боя и ввел неподвижную гипсовую повязку;
4) создал новую, неевклидову геометрию, совершившую переворот в представлении человека о природе и пространстве.

8. Во время правления этого российского императора в России произошло следующее событие:

1) восстание на броненосце «Потёмкин»;
2) в стране было отменено крепостное право;
3) российская армия разгромила великую армию Наполеона;
4) в Орехово-Зуеве произошла Морозовская стачка.

Установите соответствие:

9. События Английской буржуазной революции:

А	1640 г.	1	Реставрация династии Стюартов на престоле
Б	1645 г.	2	Установление протектората О. Кромвеля
В	1649 г.	3	Созыв Карлом I Долгого Парламента
Г	1653 г.	4	Битва при Нейзби
Д	1660 г.	5	Установление республики в Англии
		6	Принятие «Билля о правах»

ОТВЕТ: А ; Б ; В ; Г ; Д .

10. Деятели эпохи Ренессанса и их литературные и научные труды:

1	«Об обращении небесных сфер»
2	«Похвала глупости»
3	«Письма тёмных людей»
4	«Утопия»
5	«Город Солнца»

А	Б	В	Г

ОТВЕТ: А ; Б ; В ; Г .

11. Латиноамериканские колонии и их метрополии в XVI-XVIII вв.:

А	о. Пуэрто-Рико	1	Бельгия
Б	о. Ямайка	2	Франция
В	о. Кюрасао	3	Испания .
Г	о. Мартиника	4	Португалия
Д	Бразилия	5	Великобритания
		6	Нидерланды

ОТВЕТ: А ; Б ; В ; Г ; Д .

12. Договоры, заключенные после окончания Первой мировой войны, и те побежденные страны, с которыми они были заключены:

1	Версальский	А	Австрия
2	Сен-Жерменский	Б	Болгария
3	Нейиский	В	Венгрия
4	Трианонский	Е	Г ермания
5	Севрский	Д	Турция .

ОТВЕТ: 1 ; 2 ; 3 ; 4 ; 5 .

13. Ученого и открытие:

1	А. Эйнштейн	А	теория эволюции
2	А.Флеминг	Б	открытие электромагнитных волн
3	З.Фрейд	В	теория относительности
4	Ч. Дарвин	Г	изобретение пенициллина
5	Г.Герц	Д	психология


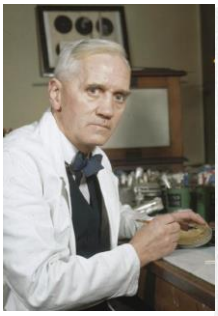



1	2	3	4	5

ОТВЕТ: 1 ; 2 ; 3 ; 4 ; 5 .

14. Назовите автора следующих строк:

1. «Мой визирь, я твердо знаю, что наши войска не смогут противостоять обученному войску. Уже тридцать лет доказывается это, и никто не понял. Я прилагал много усилий к тому, чтобы подготовить обученные войска. Но меня никто не поддержал... Я владею оружием наших предков значительно лучше многих других... Но я отлично знаю, что это оружие не сдержит войск, действующих по новой тактике...» -.....

2. “Остались мы с братом Георгием круглыми сиротами, никто нам не помогал, бояре получили, что хотели - царство без правителя, о нас же никакой заботы сердечной не проявили. И чего они только не натворили! Сокровища матери перенесли в казну, при этом неистово пиная ногами и тыча в них палками, и разделили между собой. Нас же с братом моим начали воспитывать, как последних нищих.. - .....

3. «Идеалом Германии является и всегда была война, быстро доводимая до конца... В 1914 г. планы были составлены точно с такой же целью, и они чуть-чуть не были достигнуты, если бы не Россия...» .....

15. Закончите логический ряд:

1. Екатерина II Великая - Фридрих II Великий - .....
2. Креолы- метисы - мулаты .....
3. Переправа Наполеона через Неман - Смоленское сражение - Бородинское сражение - битва под Малоярославцем - .....
4. «Пионеры» - «Последний из могикан» - «Прерия» - «Следопыт» - .....

16. Внимательно рассмотрите карты и ответьте на вопросы:

А) Город, который согласно решениям Парижской мирной конференции, превращался в «вольный город», обозначен на карте флажком с цифрой: 1)1; 2)2; 3)3; 4)4.	Б) Территория государства, которое в 1922 г. установило дипломатические отношения с Советской Россией, обозначена на карте цифрой: 1)1; 2)2; 3)3; 4)4.

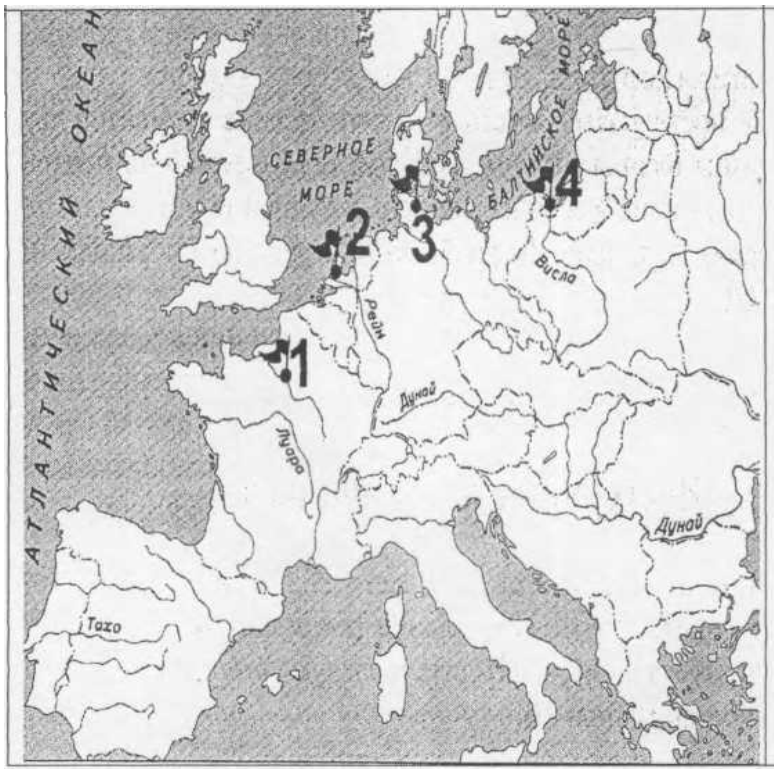

17. Внимательно рассмотрите рисунок и ответьте на вопросы:
1) Кто изображен на первом плане данной картины?
2) Что сделало возможным эту встречу? В каком году она могла состояться?
3) Каковы были последствия этих событий для двух этих стран?

Ответ1:_____
_____
_____
_____
_____

Ответ 2:_____
_____
_____
_____
_____

Ответ 3:_____
_____
_____
_____
_____
_____
_____
_____
_____

ИСТОРИЯ БЕЛАРУСИ

Выберите правильный ответ.

1. Железный век на территории Беларуси начался около:

1) IV в. до н.э.; 2) V в. до н.э.; 3) VI в. до н.э.; 4) VII в. до н.э.

2. Наибольшее количество городищ раннего железного века в Беларуси найдено на территории:

1) Минской, Гродненской, Витебской областей;
2) Витебской, Гомельской, Могилевской областей;
3) Гомельской, Гродненской, Брестской областей;
4) Витебской, Гомельской, Минской областей.

3. Какую битву, кроме Грюнвальдской, историки называют «Битвой народов XV в.»?

1) под Вилькомиром; 2) на реке Ворскла; 3) на реке Улла; 4) под Мацеёвицами.

4. Какой документ запрещал крестьянам приобретать шляхетскую землю?

а) Привилей 1387 г.;
б) Судебник 1468 г.;
в) Статут 1529 г.;
г) Статут 1566 г.;
д) Статут 1588 **г.**

5. Оборону Полоцка в 1563 г. возглавлял:

а) Стефан Баторий;
б) Иван Грозный;
в) Пётр Шуйский;
г) Станислав Давойна;
д) Иван Трубецкой.

6. Определите пункт, который не относится к условиям Люблинской унии:

а) образование единого государства с общим монархом;
б) ВКЛ и Польша сохраняли собственные войска и самостоятельность во внешней политике;
в) отдельное избрание великого князя литовского запрещалось;
г) создание единого сейма;
д) введение единой денежной системы.

7. На II съезде белорусских национальных организаций в Минске был создан орган, который носил название:

1) Большая белорусская рада;
3) Белорусский народный комитет;
2) Белорусский национальный комитет;
4) Центральная рада белорусских организаций.

8. Манифест 17 октября 1905 провозгласил:

1) создание Государственной думы с совещательными полномочиями;
2) создание Государственной думы с законодательными полномочиями;
3) право участия в выборах только привилегированным сословиям;
запрет собраний и союзов.

9. выберите несколько правильных ответов. Определите три характерные черты экономического развития белорусских земель в первой половине XIX в.:

1) Сокращение объема внешней торговли;
2) быстрое развитие банковской системы;
3) углубление специализации сельского хозяйства;
4) появление первых фабрик и заводов;
5) начало промышленного переворота.

10. Прочитайте выдержку из привилея Ягайло 1387 г.

«Согласно древнему обычаю, военный поход остается обязанностью, которая осуществляется за собственный счет и деньги. В том случае, если придется преследовать врагов, неприятелей наших, которые бежали бы с нашей земли, то для этого преследования, которое по-народному называется погоней, обязаны отправляться не только рыцари, но и каждый мужчина, какое бы он ни имел происхождение или благосостояние, лишь бы только был способен носить оружие». **Используя выдержку, определите несколько правильных утверждений.**

1) Согласно привилею участникам военных походов в ВКЛ предоставлялось полное государственное обеспечение;
2) всеобщая военная служба — погоня — собиралась в ВКЛ с целью преследования и разгрома врага;
3) согласно документу, участие в погоне могли принимать только представители шляхты; .
4) в документе содержится информация о такой организации военной службы, как посполитое рушение;
5) каждый участник погони должен был принимать участие в военных походах за свой счет.

Соотнесите элементы двух множеств:

11. Населенный пункт и найденный около него археологический памятник:

А	п. Красносельский, Волковыский район	1	языческое захоронение шахтера
Б	д. Осовец, Бешенковичский район	2	рало
В	д. Коплановичи, Клецкий район	3	статуэтки людей
Г	д. Лабенщина, Минский район	4	печь-домница

ОТВЕТ: А__ ; Б __; В ; Г____.

12. Соотнесите название должности и их функции:

А	Канцлер	1	главный начальник над вооруженными силами Великого Княжества Литовского
Б	Г етман	2	управляющий великокняжескими замками
В	Маршалок	3	должностное лицо в ВКЛ, хранитель государственной печати; с середины XVI ст. фактически наместник великого князя
Г	Каштелян	4	руководил двором великого князя, принимал заграничных послов, высших должностных лиц государства, наблюдал за этикетом, следил за безопасностью монарха

ОТВЕТ: А__ ; Б __; В ; Г____.

13. Соотнесите название мира и условия его заключения:

А	Поляновский мир	1	избрание и утверждение Михаила Романова русским царем
Б	Ям-Запольский мир	2	отказ Владислава Вазы от претензий на русский трон
В	Дэулинское перемирие	3	ВКЛ вернула в состав своей территории Смоленск
Г	Земский собор	4	мирное соглашение по итогам Ливонской войны

ОТВЕТ: А__ ; Б _; В ; Г_____.

14. Что объединяет? (Ответ сформулируйте коротко - одним словом или словосочетанием)

1. Прусы, яцвяги, курши, аукштайты, жемойты, латгалы-.....
2. Челядь, холопы, смерды, закупы .....
3. 1508 г., Ян Заберезинский, Туров, Сигизмунт I Старый, ВасилийIII……..
4. “Стража прав”, отмена “либерум вето”, выборность королевской власти, создание судов, независимых от администрации, И. Потоцкий и Г.Коллонтай…….
5. “Жалейка”, “Гусляр”, “Курган”, “Бондаровна”, “Павлинка”.....
6. Барановичи, Могилев, Свентянский прорыв, Нарочанская операция, Сморгонь……

15. Внимательно изучите карту и задания. При ответе укажите цифру, которая соответствует городу. Ответы внесите в таблицу, указав цифру и название города.:

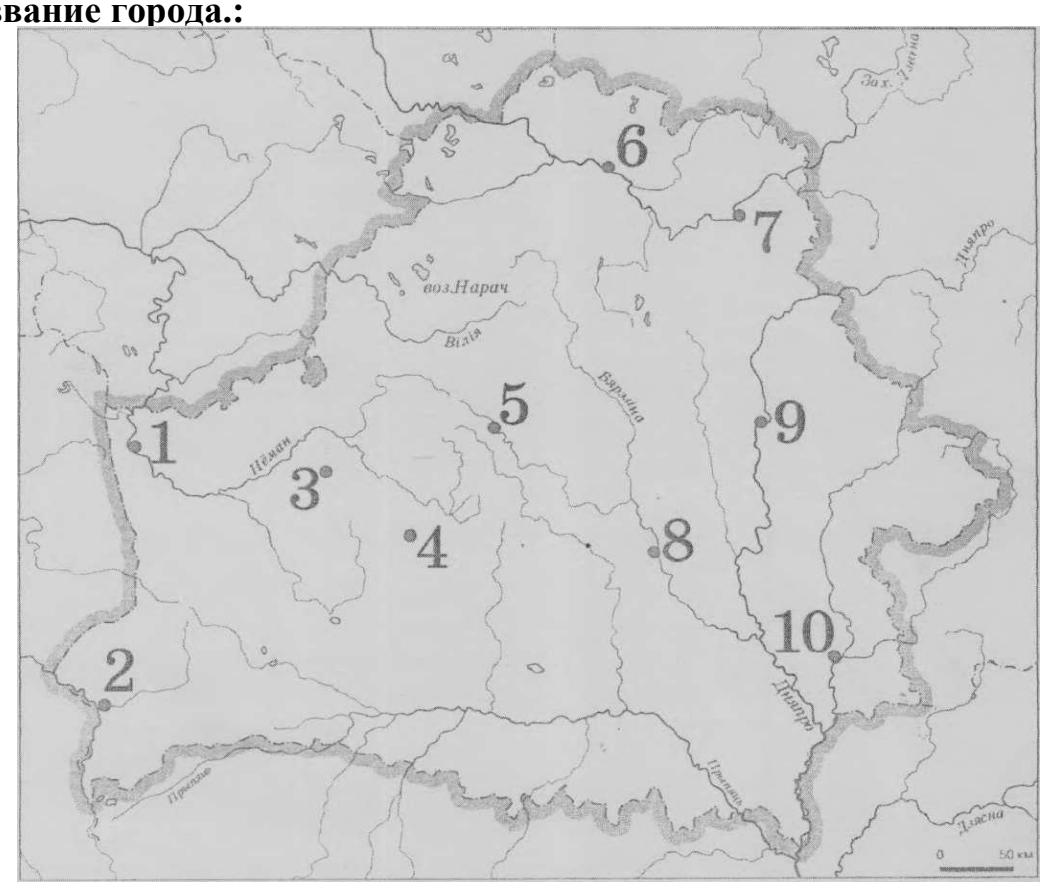

	Задание	Число, которым отмечен город	Название города
1	Город, возле которого Всеслав Чародей сражался с братьями Всеславичами.		
2	Г ород, центр княжества, князем которого в XII в. был Всеволод.		
3	Город, центр княжества, которое вошло в состав ВКЛ в 1307 г.		
4	Город, который до 1323 г. был столицей ВКЛ.		
5	Город, который подвергался агрессии крестоносцев в 1284, 1295, 1296, 1311 и 1328 гг.		
6	Г ород, в котором находилась первая кальвинистская община на территории Беларуси.		
7	Город, где расположена крепость, гарнизон которой в 1812 г. выдержал четырехмесячную осаду противника.		
8	Город, где в 1890-1901 гг. городским головой был Карл Эмерикович фон Гуттен-Чапский.		

16. Исторический документ. Ознакомьтесь с отрывком из текста и ответьте на вопросы:

«Религия установлена людьми неверующими, чтобы их чествовали.... Вера в Бога введена безбожниками. Страх божий насаждается теми, кто, не имея страха, все делает для того, чтобы (их) боялись».

1) Как называется это произведение XVII в.?.....
2) Кто является автором этого произведения? .....

17. Внимательно рассмотрите картину и ответьте на вопросы:

1) Какое событие второй половины XVI в. изображено на картине?

……
……..……

2) К каким историческим последствиям привело событие, изображенное на картине?.....
……
……
……
……
……

3) Что вы знаете о данном событии и его влиянии на историю нашей и других стран?.....
.....
.....
.....

.....
.....
.....
.....
.....
.....
.....
.....
.....
.....
.
4) Кто автор этого полотна?.....